數學科

一年級 上學期

測驗一

樣本

姓名：_____ 成績：_____

班別：_____ 日期：_____

限時 45 分鐘

考核重點		分數
一	認識 1 至 20	24 分
二	順數和倒數、奇數和偶數	28 分
三	比較數量	24 分
四	排次序	24 分
獎賞題		25 分
合計		125 分

作答說明：

1. 選擇題：選出正確的答案，並用鉛筆把該選項的圓圈填滿。
   例：正確的答案是 B，
   ○ A. 10　● B. 15　○ C. 20　○ D. 25
2. 列式計算題：在框內寫出橫式、答案、文字解說或題解。
3. 其他題型：依題目指示，在適當的位置作答。

樣本

一 認識 1 至 20

根據下列各數，圈出適當數量的糖果和水果。（每題 2 分）

1. 4

2. 9



3. 8

4. 12



5. 14



6. 15

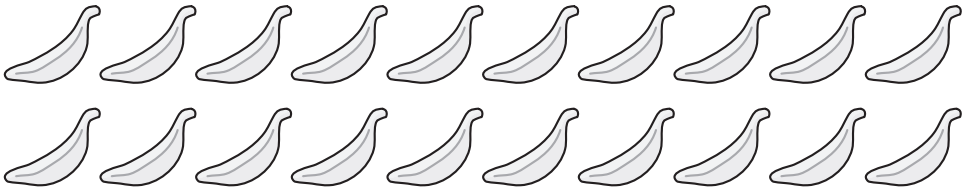

數學科

一年級 上學期

考試一

樣本

姓名：_____ 成績：_____

班別：_____ 日期：_____

限時 45 分鐘

考核重點		分數
一	20 以內的數	8 分
二	2 至 18 的分解和合成	16 分
三	立體圖形	16 分
四	基本加法和減法	16 分
五	0 的認識	8 分
六	物件的相對位置	12 分
七	長度和距離	12 分
八	量度活動	12 分
獎賞題		25 分
合計		125 分

作答說明：

1. 選擇題：選出正確的答案，並用鉛筆把該選項的圓圈填滿。
   例：正確的答案是 B，
   ○ A. 10　● B. 15　○ C. 20　○ D. 25
2. 列式計算題：在框內寫出橫式、答案、文字解說或題解。
3. 其他題型：依題目指示，在適當的位置作答。

樣本

一　20 以內的數

數一數各種水果的數量，填一填，圈一圈。(每題 2 分)

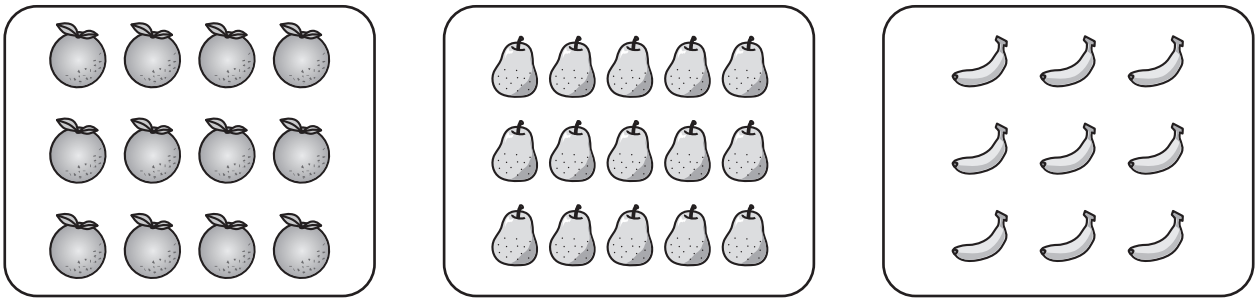

1. 有 _____ 個，這個數是 (奇數 / 偶數)。

2. 有 _____ 個，這個數是 (奇數 / 偶數)。

3. 有 _____ 條，這個數是 (奇數 / 偶數)。

4. 數量最多的是 (/ /)。

8

二　2 至 18 的分解和合成

回答下列各題。(每題 2 分)

5.

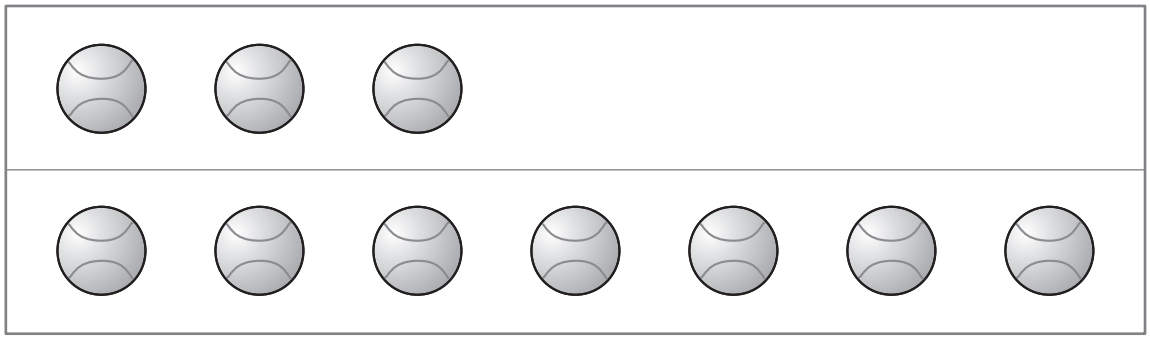

3 和 7 合成為 _____。

樂思 精英班 2.0

樣本

數學科評估試卷

新課程版

一年級

自學攻略

目錄

温習備忘	頁 2-5
答案詳解	頁 6-23

Pan Lloyds 樂思

樣本

3. (a) 7；奇數　　(b) 2

解題精要

(b) 家樂原有 8 輛玩具車，如果他向浩明借來 1 輛玩具車，便共有 9 輛，這個數是奇數，不符合條件。
因此他最少向浩明借來 2 輛玩具車，這時候他共有 10 輛玩具車，這個數是偶數。

4. 11

解題精要

陳太太前面有 6 人，即她排第 7 位。由第 7 位開始多數 4 人，最後的人排第 11 位，即共有 11 人。

上學期 測驗二

一 順數和倒數、奇數和偶數

1. 11；12；14；順數
2. 18；16；15；倒數
3. 5；4；2；倒數
4. 13；14；15；順數
5. 4
6. 6
7. 11，17，9
8. 12，18

解題精要

5. 由 9 順數至 15：9，10，11，12，13，14，15
這些數中的奇數有：9，11，13，15
6. 由 18 倒數至 7：18，17，16，15，14，13，12，11，10，9，8，7
這些數中的偶數有：18，16，14，12，10，8
8. 比 10 大的數有：15，12，18
這些數中的偶數有：12，18

二 比較數量

9. A　　10. B
11. D　　12. C
13. 13；奇數
14. 12；偶數
15.
16.

解題精要

12. 由 2 順數至 16：2，3，4，5，6，7，8，9，10，11，12，13，14，15，16
這些數中的奇數有：3，5，7，9，11，13，15。15 是最大的奇數。

15 － 16. 有 18 隻， 有 19 隻。

三 排次序

17. 12　　18. 13
19. 8　　20. 7
21. 5
22.

四 2 至 18 的分解和合成

23. 5；8　　24. 8；12
25. 7；1　　26. 10；3
27. 4；9　　28. 6；15
29. 7；7　　30. 17；9
31. (a) 7；
(b) 3； 
32. (a) 9； 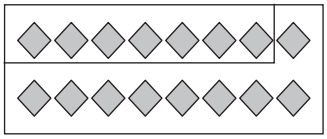
(b) 8； 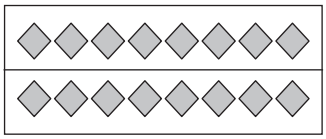
33. (a) 7； 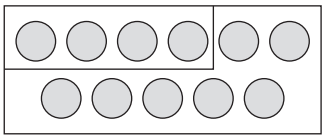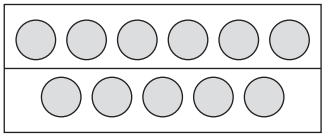
(b) 5；